Korallkereső

Az ábra egy tengert jelképez, amelyben egy korall rejtőzik. Feketítsen be néhány négyzetet, hogy azok egy összefüggő korallt alkossanak (az átlós szomszédság nem elegendő!) és a korall önmagát még sarkosan sem érintse! A számok azt jelentik, hogy az adott sorban, illetve oszlopban mennyi és egyenként milyen hosszú csoportokat kell befeketíteni. Nehezítésképpen a számokat növekvő sorrendben adtuk meg. Továbbá nem keletkezhet olyan 2x2 négyzetből álló terület, melynek minden négyzete be van színezve.

Minta:

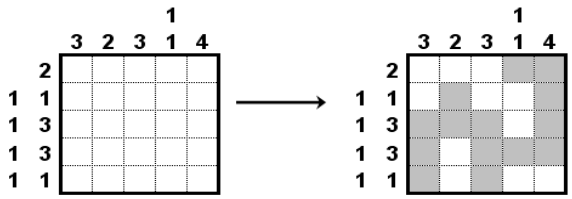

●●●○○○○○○○ nr.243

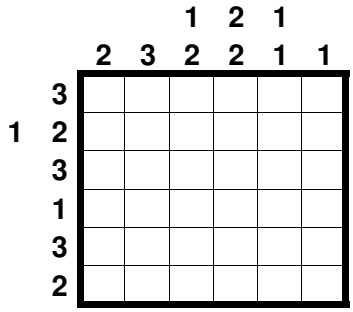

●●●●○○○○○○ nr.244

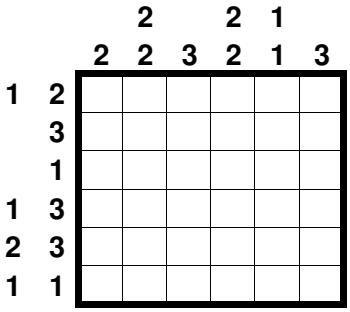

●●●○○○○○○○ nr.245

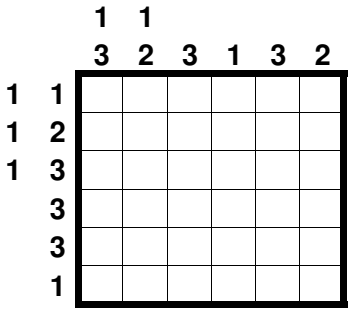

●●●●●○○○○○ nr.246

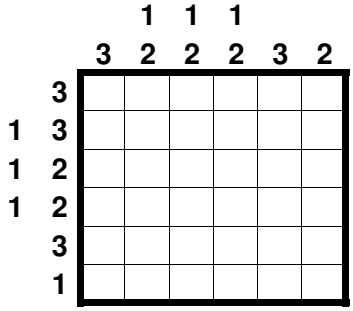

●●●●●○○○○○ nr.247

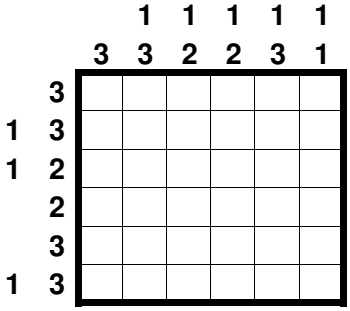

●●●●●●○○○○ nr.248

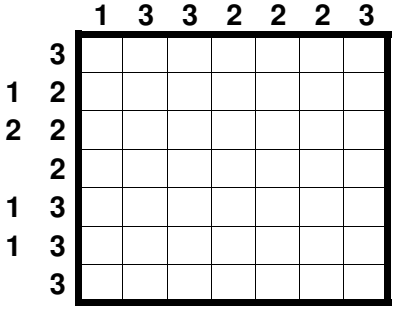

●●●●●●○○○○ nr.249

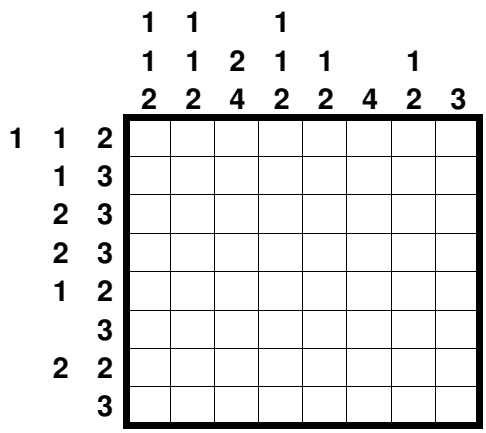
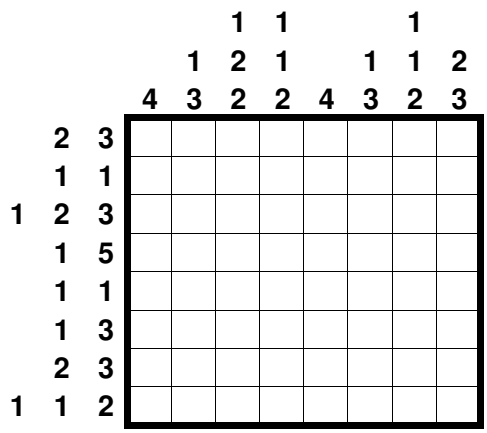
●●●●●●○○○○ nr.250