Invázió

Öt harci repülő érkezik meg a 10x10-es ábrán jelölte területre. Mindegyik repülőgép alakja a mellékelt mintáéval azonos, de az ábrában elforgatva is megtalálható. A repülők egyes elemeinek pontértéke különböző. Állapítsa meg a repülőgépek helyzetét, ha tudjuk, hogy az általuk elfoglalt négyzetek egymást még átlósan sem érinthetik, és a sorok, illetve oszlopok elején látható számok az ott található géprészletek pontszámainak összege.

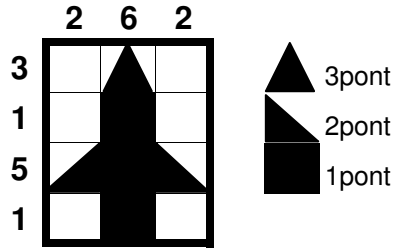

nr.729

●●●●●●○○○○

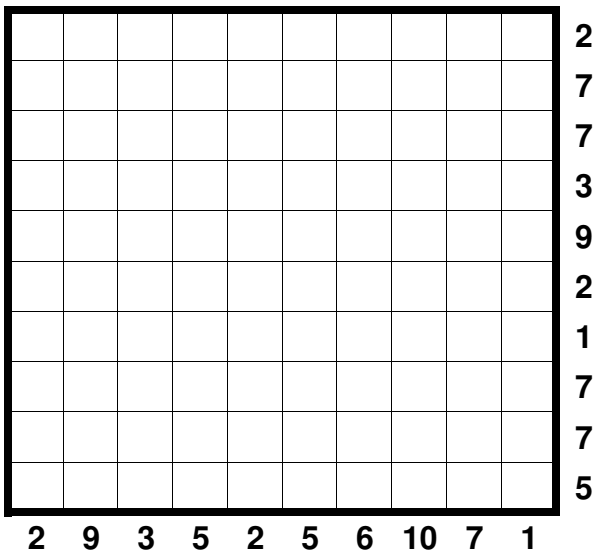

nr.730

●●●●●●●○○○

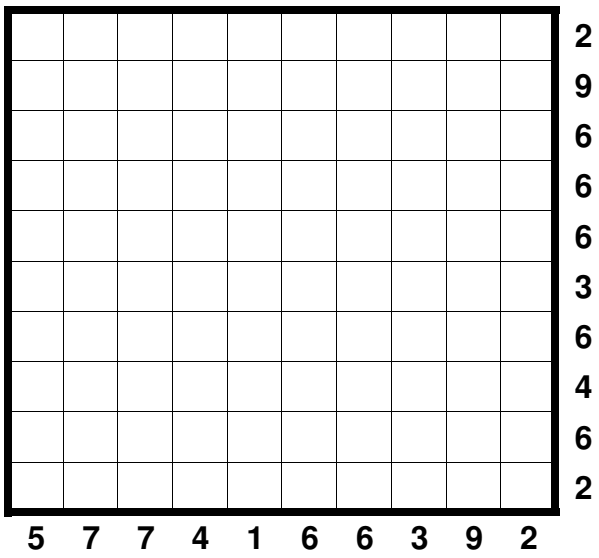

nr.731

●●●●●●●○○○

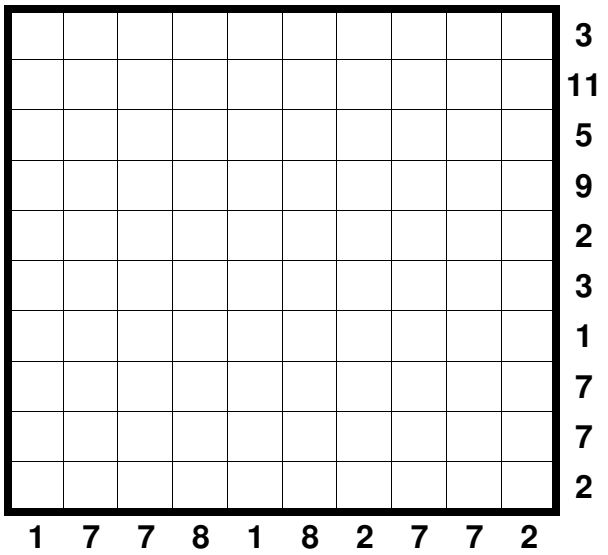

nr.732
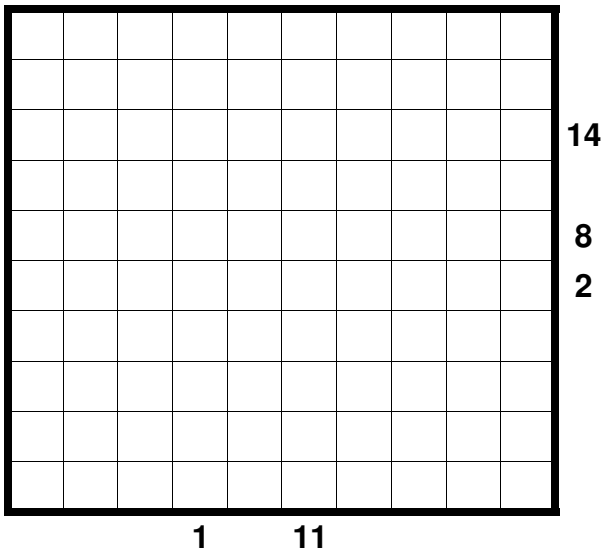
●●●●●●●●●○○